Практическая работа

Работа с контурной картой по теме «Мировой океан»



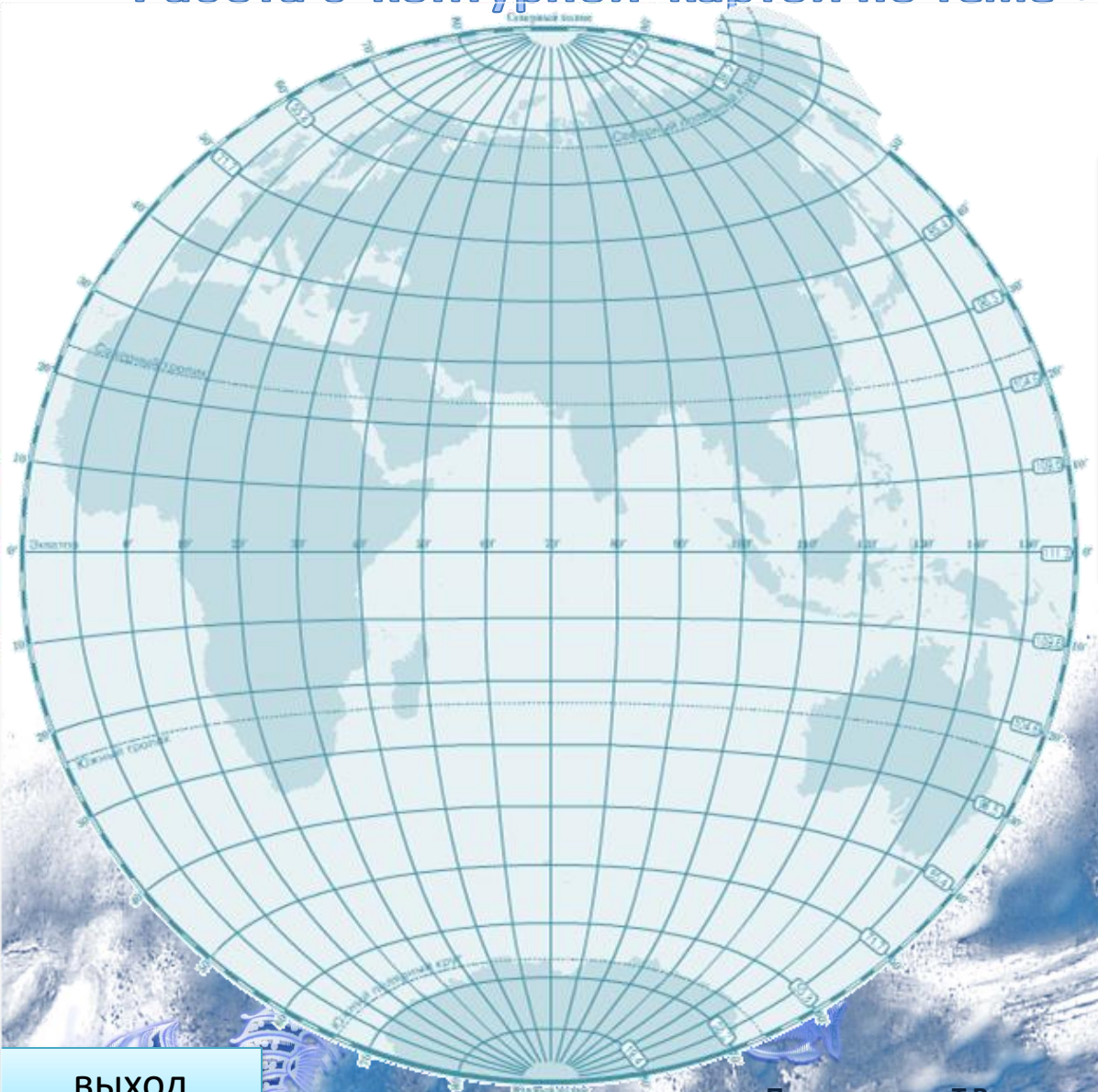

Все объекты гидросферы - океаны, моря, заливы и проливы - подписываются **синим** цветом. Острова, полуострова **– черным.**

.

выход

Передельская Т.В.

далее



Объекты подписываются печатными буквами. Расположение слов должно быть как в атласе.

Если название длинное или мало места на карте – ставится цифра и название выносится в условные обозначения

выход

Передельская Т.В.

далее



Подпишите на карте Индийский океан, нарисуйте его границы

Образец выполнения

выход

Передельская Т.В.

далее



Подпишите на карте моря Индийского океана, заливы, проливы

Образец выполнения

выход

Передельская Т.В.

далее



Подпишите на карте крупнейшие полуострова и острова Индийского океана

Образец выполнения

Условные обозначения

1. о.Мадагаскар
2. о. Шри-Ланка

выход

назад

Передельская Т.В.

далее

Нанесите на контурную карту объекты Мирового океана указанные в учебнике .



острова: Гренландия, Гавайские,
полуострова: Камчатка, Аравийский, Индостан,
моря: Чёрное, Саргассово, Карское, Балтийское, Красное, Охотское, Аравийское;
заливы: Бенгальский, Бискайский;
проливы: Берингов, Гибралтарский, Магелланов, Дрейка;
течения: Гольфстрим, Северо-Атлантическое, Лабрадорское,

названия

выход

Безногова О.Н.

далее

Контроль знаний

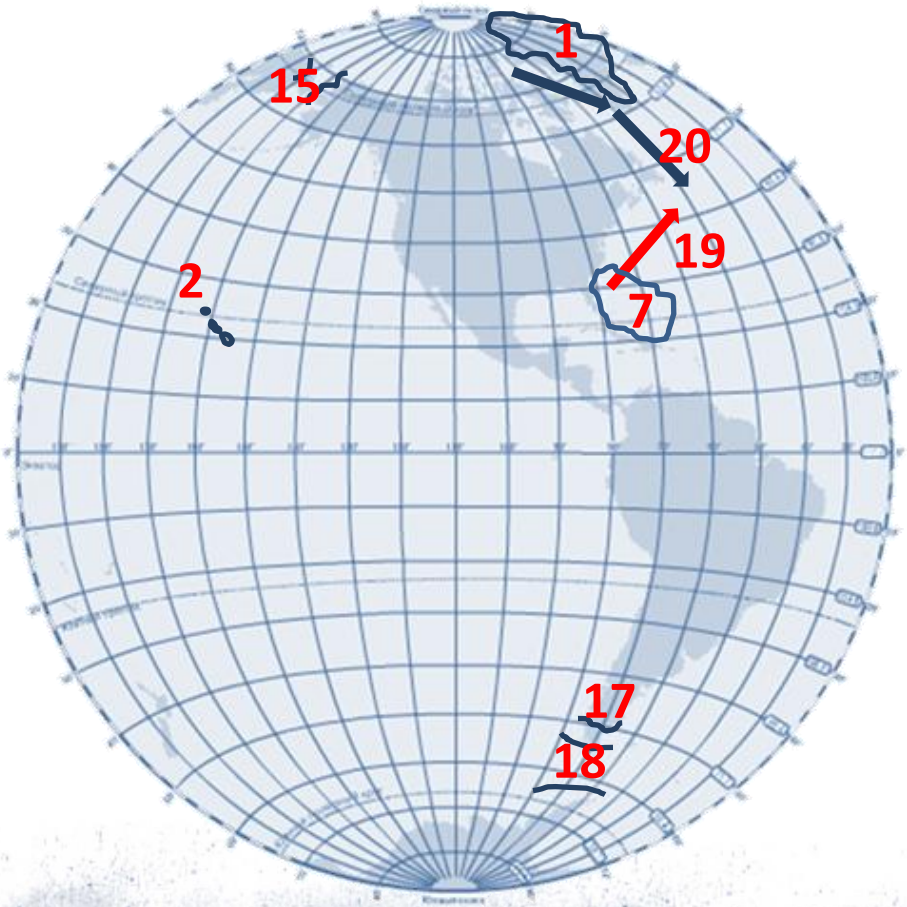

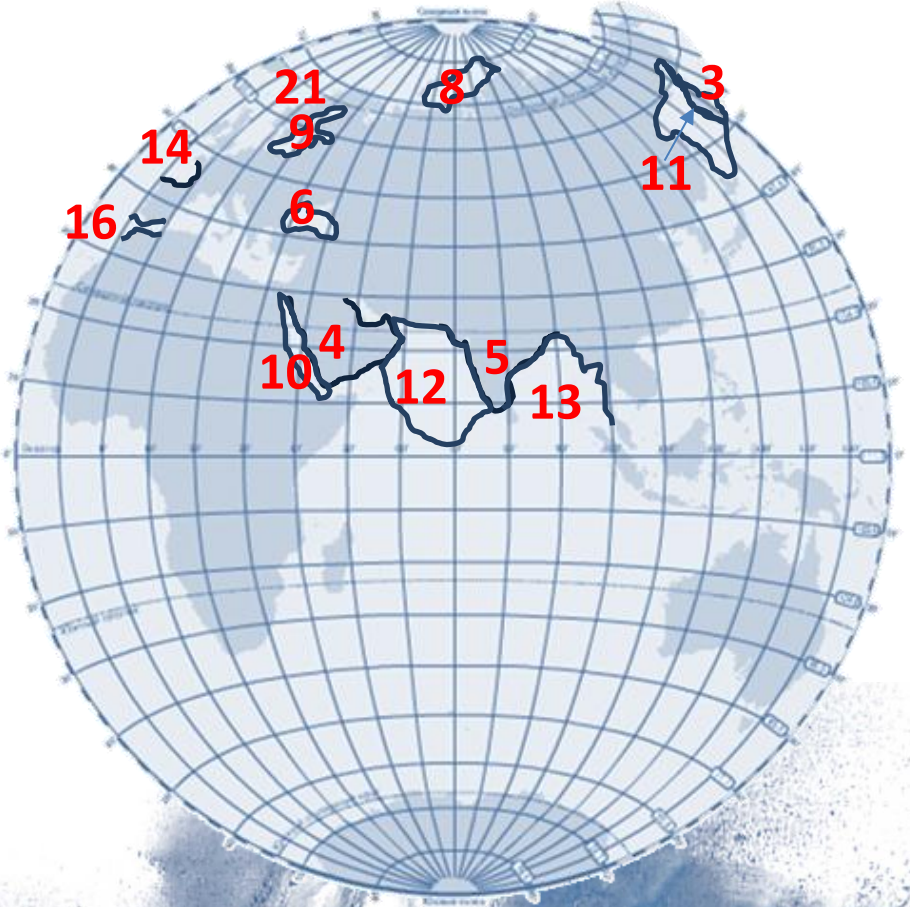

Задание. Назовите объекты обозначенные на карте цифрами

1 вариант: 3,5,7,9,11,13,15,17,19,21

2 вариант – 2,4,6,8,10,12,14,16,18,20

Например: 1- Гренландия и т.д.

выход

далее

Самоконтроль или взаимоконтроль

1 вариант

3- п-ов Камчатка
5- п-ов Индостан
7- Саргассово море
9- Балтийское море
11- Охотское море
13- Бенгальский залив
15- Берингов пролив
17- Магелланов пролив
19- течение Гольфстрим
21- Северо-Атлантическое течение

2 вариант

2–Гавайские о-ва
4- п-ов Аравийский
6-Черное море
8- Карское море
10–Красное море
12- Аравийское море
14–Бискайский залив
16-Гибралтарский пролив
18-пролив Дрейка
20-течение Лабрадорское

